.....	.....	.....
Imię i nazwisko	Data	Klasa

SPRAWDZIAN CZWARTY

1. Znaki zakazu mają kształt:

A. trójkąta równobocznego, żółte tło, poza nielicznymi wyjątkami czarne symbole i czerwoną obwódkę.
B. koła, na ogół białe tło, niekiedy niebieskie lub czerwone i czarne, żółte lub szare symbole oraz czerwoną lub czarną obwódkę.
C. kwadratu, niebieskie tło i białe symbole.

2. Przedstawiony znak ostrzega o

A. skręcaniu najpierw w lewo.
B. śliskiej jezdni.
C. zmianie pasa ruchu.

3. Poniżej są przedstawione trzy znaki oznaczone cyframi: 1, 2 i 3.


1

2

3

Do zatrzymania się przed wjazdem na skrzyżowanie zobowiązuje znak z cyfrą

A. 1
B. 2
C. 3

4. Sygnał ten umieszcza się na



A. przejazdach kolejowych.
B. przejazdach tramwajowych.
C. skrzyżowaniach.

AUTORZY: Bogumiła Bogacka-Osińska, Danuta Łazuchiewicz

© Copyright by Wydawnictwa Szkolne i Pedagogiczne, Warszawa 2017

5. Jeśli jest ustawiony ten znak, to

A. można zawracać.
B. nie można zawracać.
C. można skręcać w lewo.

6. Znak ten oznacza:

A. drogę z pierwszeństwem.
B. nakaz jazdy prosto.
C. drogę jednokierunkową.

7. Znak ten znajduje się



A. przed skrzyżowaniem z drogą z pierwszeństwem.
B. przed skrzyżowaniem z drogą podporządkowaną.
C. w pobliżu przejazdu kolejowego.

nie jest

8. Znak ten jest z grupy znaków

A. pionowych.
B. poziomych.
C. ostrzegawczych.

AUTORZY: Bogumiła Bogacka-Osińska, Danuta Łazuchiewicz

© Copyright by Wydawnictwa Szkolne i Pedagogiczne, Warszawa 2017

9. Znak ten umieszcza się przed

A. przejazdami tramwajowymi.
B. przejazdami kolejowymi.
C. skrzyżowaniami równorzędnymi.

10. W tej sytuacji rowerzysta



A. nie jest włączającym się do ruchu.
B. musi zachować szczególną ostrożność.
C. ma pierwszeństwo.

11. Jakiego manewru spośród podanych poniżej dotyczy ten znak?



A. Zatrzymania.
B. Włączania się do ruchu.
C. Wymijania.

AUTORZY: Bogumiła Bogacka-Osińska, Danuta Łazuchiewicz

© Copyright by Wydawnictwa Szkolne i Pedagogiczne, Warszawa 2017

12. W tej sytuacji rowerzysta musi zastosować

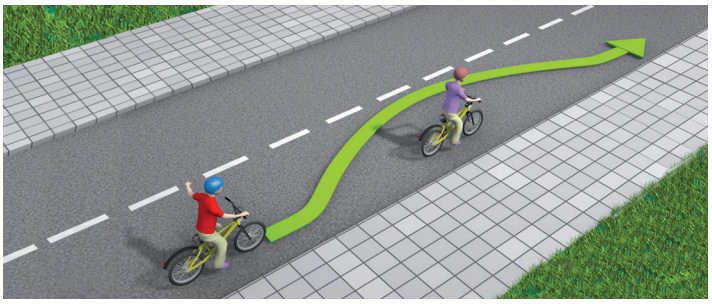

A. zasadę ograniczonego zaufania.
B. zasadę ostrożności.
C. zasadę szczególnej ostrożności.

13. W tej sytuacji rowerzysta



A. zawraca.
B. jedzie w tym samym kierunku.
C. omija przeszkodę.

14. Zasada prawej strony obowiązuje na skrzyżowaniach

A. z drogą podporządkowaną.
B. z drogą z pierwszeństwem.
C. równorzędnych.

15. Na tym skrzyżowaniu:

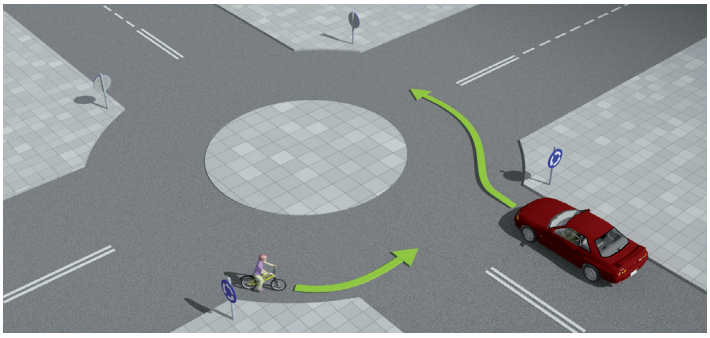

A. pojazdy wjeżdżające na rondo mają pierwszeństwo.
B. pojazdy będące na rondzie mają pierwszeństwo.
C. nie obowiązuje ruch okrężny.

AUTORZY: Bogumiła Bogacka-Osińska, Danuta Łazuchiewicz

© Copyright by Wydawnictwa Szkolne i Pedagogiczne, Warszawa 2017

16. Rowerzysta skręca w prawo na

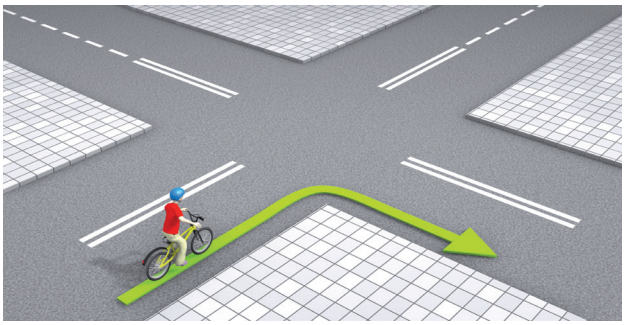

A. skrzyżowaniu z pierwszeństwem.
B. skrzyżowaniu równorzędnym.
C. skrzyżowaniu z drogą podporządkowaną.

17. W tej sytuacji rowerzysta

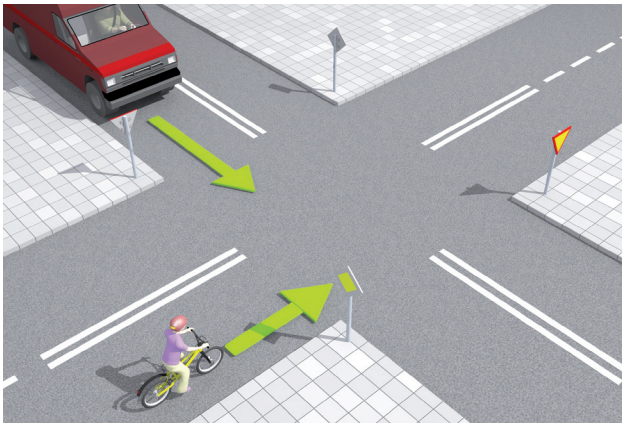

A. ma pierwszeństwo przed samochodem.
B. musi zaczekać, bo samochód ma pierwszeństwo przed rowerzystą.
C. znajduje się na drodze podporządkowanej.

18. Rowerzysta, który skręca w lewo na odcinku prostym drogi,

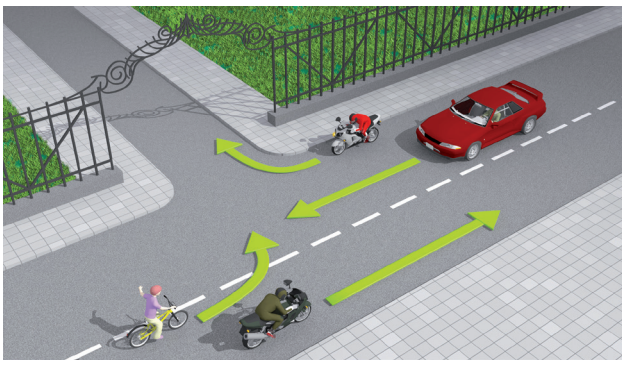

A. ustępuje pierwszeństwa samochodowi jadącemu prosto i motocykliście skręcającemu w prawo.
B. nie ustępuje pierwszeństwa motocykliście skręcającemu w prawo.
C. ustępuje pierwszeństwa tylko samochodowi.

AUTORZY: Bogumiła Bogacka-Osińska, Danuta Łazuchiewicz

© Copyright by Wydawnictwa Szkolne i Pedagogiczne, Warszawa 2017

19. Rowerzysta na tym skrzyżowaniu ustępuje pierwszeństwa

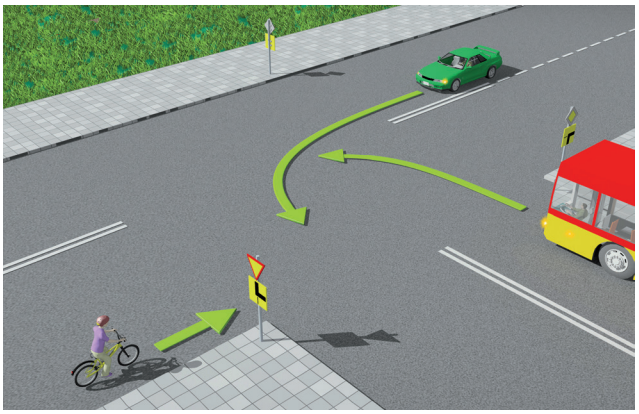

A. tylko autobusowi.
B. tylko samochodowi.
C. obu pojazdom.

20. Rowerzysta na tym skrzyżowaniu

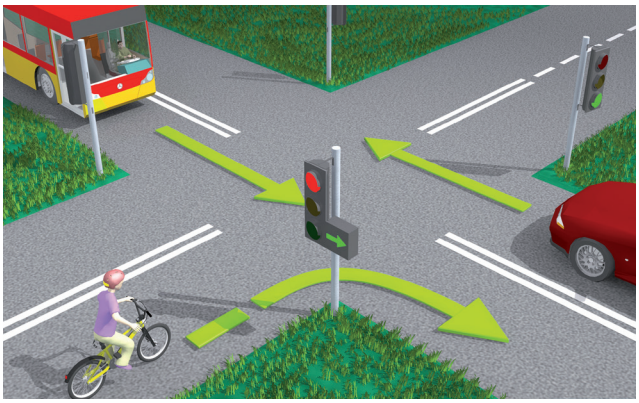

A. ustępuje pierwszeństwa autobusowi.
B. może skręcić w prawo w każdej chwili.
C. może skręcić w prawo, ale pod warunkiem, że zapali się zielone światło.

AUTORZY: Bogumiła Bogacka-Osińska, Danuta Łazuchiewicz

© Copyright by Wydawnictwa Szkolne i Pedagogiczne, Warszawa 2017